1. На рисунках изображены графики функций вида $y = ax^2 + bx + c$. Установите соответствие между графиками функций и знаками коэффициентов a и c.

ФУНКЦИИ

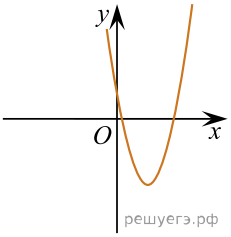

А)

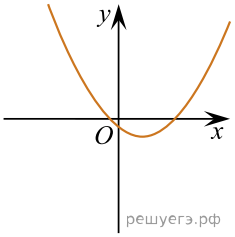

Б)

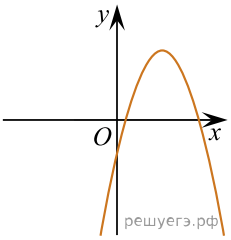

В)

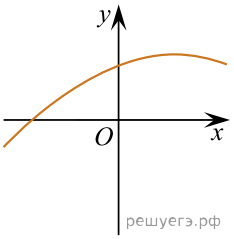

Г)

КОЭФФИЦИЕНТЫ

1) $a > 0,\ c > 0$
2) $a < 0,\ c > 0$
3) $a > 0,\ c < 0$
4) $a < 0,\ c < 0$

В таблице под каждой буквой укажите соответствующий номер.

А	Б	В	Г

2. На рисунках изображены графики функций вида $y = ax^2 + bx + c$. Установите соответствие между графиками функций и знаками коэффициентов a и c.

ФУНКЦИИ

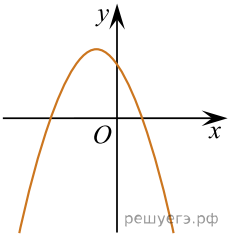

А)

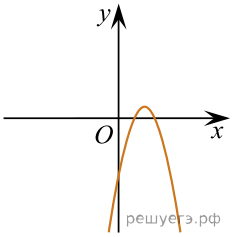

Б)

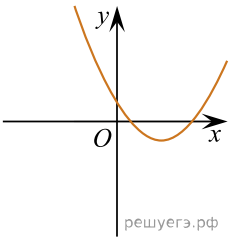

В)

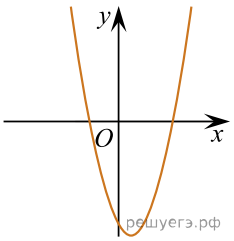

Г)

КОЭФФИЦИЕНТЫ

1) $a < 0,\ c > 0$
2) $a > 0,\ c < 0$
3) $a > 0,\ c > 0$
4) $a < 0,\ c < 0$

В таблице под каждой буквой укажите соответствующий номер.

А	Б	В	Г

3. На рисунках изображены графики функций вида $y = ax^2 + bx + c$. Установите соответствие между графиками функций и знаками коэффициентов a и c.

ФУНКЦИИ

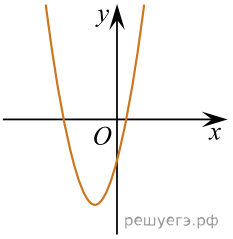

А)

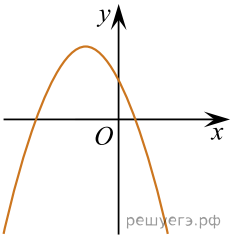

Б)

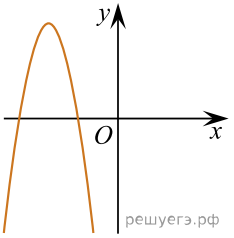

В)

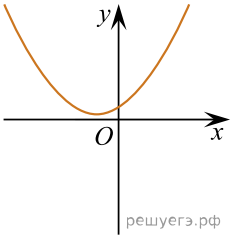

Г)

КОЭФФИЦИЕНТЫ

1) $a > 0,\ c > 0$
2) $a > 0,\ c < 0$
3) $a < 0,\ c > 0$
4) $a < 0,\ c < 0$

В таблице под каждой буквой укажите соответствующий номер.

А	Б	В	Г

4. На рисунках изображены графики функций вида $y = ax^2 + bx + c$. Установите соответствие между графиками функций и знаками коэффициентов a и c.

ФУНКЦИИ

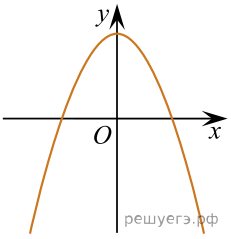

А)

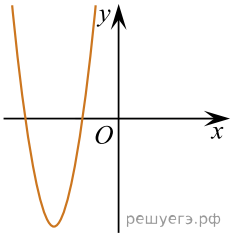

Б)

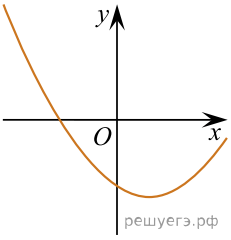

В)

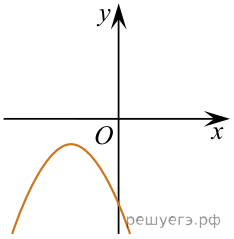

Г)

КОЭФФИЦИЕНТЫ

1) $a > 0,\ c < 0$
2) $a < 0,\ c > 0$
3) $a < 0,\ c < 0$
4) $a > 0,\ c > 0$

В таблице под каждой буквой укажите соответствующий номер.

А	Б	В	Г