В треугольнике ABC известно, что $AB = BC = 65$, $AC = 104$. Найдите длину медианы BM.

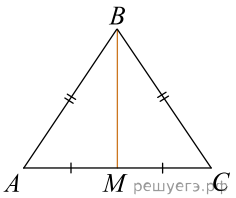

ИЛИ

На окружности радиуса 3 взята точка C. Отрезок AB — диаметр окружности, $AC = 2\sqrt{5}$. Найдите BC.

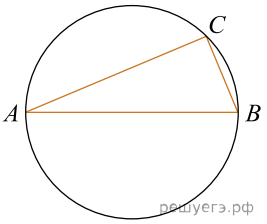

ИЛИ

В треугольнике ABC угол C равен 90°, $AB = 4$, $AC = \sqrt{7}$. Найдите $\cos\angle B$.

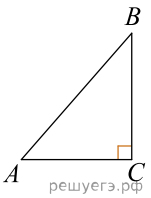

ИЛИ

В треугольнике ABC известно, что $AB = BC = 17$, $AC = 16$. Найдите площадь треугольника ABC.

