На координатной прямой отмечены точки A , B, C и D.

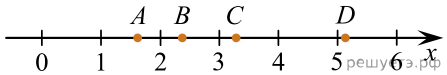

Каждой точке соответствует одно из чисел в правом столбце. Установите соответствие между указанными точками и числами.

ТОЧКИ	ЧИСЛА
A	1) $\log_2 10$
B	2) $\frac{7}{3}$
C	3) $\sqrt{26}$
D	4) $\left(\frac{3}{5}\right)^{-1}$

Запишите в ответ цифры, расположив их в порядке, соответствующем буквам:

A	B	C	D

ИЛИ

Каждому из четырёх неравенств в левом столбце соответствует одно из решений в правом столбце. Установите соответствие между неравенствами и их решениями.

НЕРАВЕНСТВА	РЕШЕНИЯ
А) $2^x \geqslant 4$	1) 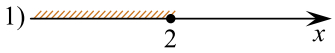
Б) $0,5^x \geqslant 4$	2)
В) $0,5^x \leqslant 4$	3) 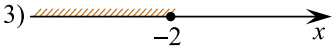
Г) $2^x \leqslant 4$	4)

Запишите в ответ цифры, расположив их в порядке, соответствующем буквам:

А	Б	В	Г

Вариант № 512835