Каждому из четырёх графиков функций в первом перечне соответствует одно из значений производной функции $f(x)$ в точке x_0 во втором перечне. Установите соответствие между графиками и значениями производной.

ГРАФИКИ

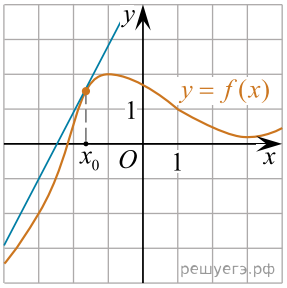

А)

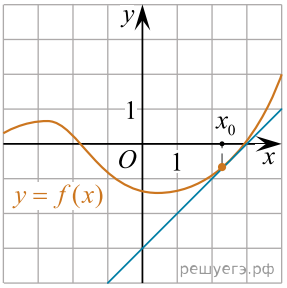

Б)

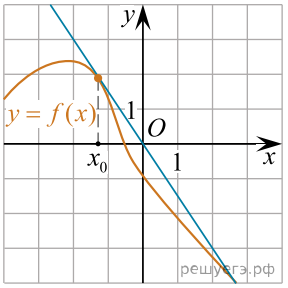

В)

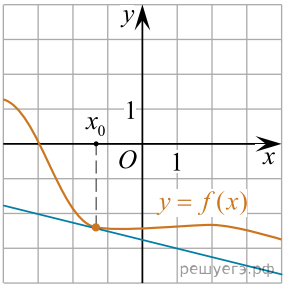

Г)

ЗНАЧЕНИЯ ПРОИЗВОДНОЙ

1) $-\frac{3}{2}$
2) $-\frac{1}{4}$
3) 1
4) 2

Запишите в ответ цифры, расположив их в порядке, соответствующем буквам:

А	Б	В	Г